أسئلة كتاب التمارين

طرح عددين من منزلتين

أَجِدُ ناتِجَ الطَّرْحِ:

1

	عَشَراتٌ	آحادٌ
	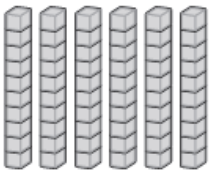	
−		
	3	2

2

	عَشَراتٌ	آحادٌ
		
−		
	3	5

أَجِدُ ناتِجَ الطَّرْحِ:

3 $78 - 63 = \boxed{15}$

4 $45 - 22 = \boxed{23}$

5 $92 - 51 = \boxed{41}$

6 $88 - 56 = \boxed{32}$

7 $63 - 23 = \boxed{40}$

8 $59 - 48 = \boxed{11}$

9 ما رَقْمُ الْعَشَراتِ في ناتِجِ طَرْحِ 41 – 48؟

رَقْمُ الْعَشَراتِ الَّذي سَأَضَعُهُ في 41 – 48 مَنْزِلَةِ الْعَشَراتِ هو 0

10 إِذا كانَ عُمْرُ رَأْفَتٍ 58 سَنَةً، وَعُمْرُ ابْنَتِهِ مَيَّ 21 سَنَةً، فَما الْفَرْقُ بَيْنَ عُمْرِ رَأْفَتٍ وَابْنَتِهِ؟

$58 - 21 = 37$